CONSÓRCIO INTERMUNICIPAL MULTISSETORIAL DO MÉDIO RIO PIRACICABA – CONSMEPI

PROCESSO SELETIVO 02/2026

CADERNO DE QUESTÕES

CARGO: TOPÓGRAFO

INSTRUÇÕES AO CANDIDATO

1. A duração total da prova é de 3 (três) horas, já incluído o tempo destinado ao preenchimento da Folha de Respostas.
2. O candidato somente poderá iniciar a prova ou folhear o caderno de questões após autorização do fiscal de sala.
3. Antes de iniciar, verifique se o seu caderno contém 30 (trinta) questões objetivas, numeradas corretamente, e se todas as páginas estão completas e legíveis.
4. Cada questão apresenta quatro alternativas (A), (B), (C) e (D). Marque somente uma alternativa na Folha de Respostas.
5. Utilize caneta esferográfica de tinta azul ou preta. Rasuras, marcações múltiplas ou o uso de lápis implicam anulação da questão.
6. A Folha de Respostas é de inteira responsabilidade do candidato, não sendo fornecida substituição em caso de erro, rasura ou marcação indevida.
7. Confira seus dados pessoais na Folha de Respostas antes de iniciar a prova.
8. É proibido consultar qualquer material, comunicar-se com outros candidatos ou utilizar equipamentos eletrônicos, tais como celulares, fones de ouvido, relógios digitais, calculadoras, entre outros.
9. O candidato somente poderá retirar-se do local de aplicação da prova depois de transcorrido o tempo de 60 minutos da duração da prova, levando consigo o caderno de provas.
10. Mantenha silêncio e obedeça às orientações do fiscal de sala. O descumprimento destas normas poderá acarretar eliminação do certame.

BOA PROVA!

LÍNGUA PORTUGUESA

TEXTO I

"Ao verme que primeiro roeu as frias carnes do meu cadáver dedico como saudosa lembrança estas memórias póstumas. Algum tempo hesitei se devia abrir estas memórias pelo princípio ou pelo fim, isto é, se poria em primeiro lugar o meu nascimento ou a minha morte. Suposto o uso vulgar seja começar pelo nascimento, duas considerações me levaram a adotar diferente método: a primeira é que eu não sou propriamente um autor defunto, mas um defunto autor, para quem a campa foi outro berço; a segunda é que o escrito ficaria assim mais galante e mais novo."

(ASSIS, Machado de. Memórias Póstumas de Brás Cubas. Rio de Janeiro, 1881. Domínio público.)

QUESTÃO 1

Nos trechos do texto I, a ideia central é que:

A) a obra se apresenta como memórias de um defunto, que inverte a ordem convencional da narrativa ao começar pelo fim.

B) o narrador hesita porque teme revelar segredos de família.

C) a obra registra com fidelidade documental a história do Brasil do século XIX.

D) o narrador se arrepende amargamente de ter escrito o livro.

QUESTÃO 2

Com base no texto I, é correto inferir que:

A) o narrador já está morto no momento em que escreve as memórias.

B) o narrador escreveu a obra no leito de morte, ainda em vida.

C) a obra foi organizada e publicada por terceiros, após a morte do autor.

D) o narrador dedicou a obra a um amigo de infância.

QUESTÃO 3

No texto I, o emprego de palavras e expressões ultrapassa, em vários momentos, o sentido literal. Assinale a alternativa cuja explicação de sentido não está correta.

A) "as frias carnes do meu cadáver" refere-se ao próprio corpo morto do narrador.

B) "um defunto autor" inverte a ordem das palavras para ironizar a condição do narrador: um morto que escreve.

C) "saudosa lembrança" mantém o sentido denotativo de saudade, pois o narrador recorda com nostalgia a convivência que teve com o verme em vida.

D) "a campa foi outro berço" emprega "berço" em sentido figurado, como ponto de partida de uma nova existência.

QUESTÃO 4

A respeito dos recursos linguísticos dos textos I e II, analise as assertivas a seguir.

I. Em "estas memórias póstumas", o pronome demonstrativo "estas" indica proximidade, situando o livro no momento da enunciação.

II. Em "isto é, se poria em primeiro lugar o meu nascimento ou a minha morte", a locução "isto é" introduz explicação que retoma e esclarece o que foi dito antes.

III. Em "Não tive filhos, não transmiti a nenhuma criatura o legado da nossa miséria", a repetição do advérbio "não" no início das duas orações cria efeito de reforço da negação.

IV. Em "abrir estas memórias pelo princípio ou pelo fim", a conjunção "ou" introduz oração coordenada sindética adversativa.

Está correta a informação contida em:

A) I e II, apenas.

B) I, II e III, apenas.

C) II e IV, apenas.

D) III e IV, apenas.

QUESTÃO 5

Considerando os trechos do Texto I, assinale a alternativa que descreve corretamente características da narrativa apresentada.

A) a exposição de dados estatísticos para comprovar hipóteses científicas.

B) a narração ficcional em primeira pessoa, com digressões e ironia.

C) o relato jornalístico imparcial de fatos recentes do cotidiano urbano.

D) a instrução sequencial de etapas para a execução de uma tarefa prática.

TEXTO II

"Não tive filhos, não transmiti a nenhuma criatura o legado da nossa miséria."

(ASSIS, Machado de. Memórias Póstumas de Brás Cubas. Rio de Janeiro, 1881. Domínio público. Trecho final da obra.)

QUESTÃO 6

No texto II, a frase que encerra a obra expressa:

A) um encerramento irônico, em que o narrador apresenta a ausência de filhos como uma forma de não ter transmitido a outros o "legado da nossa miséria".

B) o lamento sincero e melancólico do narrador pela ausência de descendência.

C) a referência à pobreza financeira do narrador, que nada pôde deixar em herança.

D) a celebração, pelo narrador, da alegria de ter deixado herdeiros.

QUESTÃO 7

Analise as assertivas a seguir, referentes à análise linguística dos textos I e II.

I. Em "dedico como saudosa lembrança estas memórias póstumas", o verbo "dedicar" é transitivo direto e indireto, e "estas memórias póstumas" exerce a função de objeto direto.

II. Em "Suposto o uso vulgar seja começar pelo nascimento", o verbo "seja" está no presente do subjuntivo.

III. Em "Não tive filhos, não transmiti a nenhuma criatura o legado da nossa miséria", as orações estão coordenadas assindeticamente.

IV. Em "se poria em primeiro lugar o meu nascimento ou a minha morte", o verbo "poria" está no futuro do presente do indicativo.

V. Em "hesitei se devia abrir estas memórias", o verbo "devia" está no pretérito imperfeito do indicativo, em correlação com o pretérito perfeito "hesitei".

Estão corretas apenas as assertivas:

A) I e II.
B) I, II e III.
C) I, III e V.
D) I, II, III e V.

QUESTÃO 8

Nos textos I e II, os recursos expressivos contribuem para a construção dos sentidos.

Assinale a alternativa cuja identificação da figura de linguagem está incorreta:

A) Em "eu não sou propriamente um autor defunto, mas um defunto autor", ocorre um quiasmo, caracterizado pela disposição invertida das palavras "autor" e "defunto".

B) Em "o meu nascimento ou a minha morte", ocorre uma antítese, pela aproximação de palavras que expressam ideias opostas.

C) Em "Não tive filhos, não transmiti a nenhuma criatura o legado da nossa miséria", ocorre um eufemismo, pois a declaração suaviza a referência à morte do narrador.

D) Em "a campa foi outro berço", ocorre uma metáfora, pois a sepultura é apresentada como um berço, associado ao início da existência do narrador como escritor depois de morto.

QUESTÃO 9

Analise as assertivas a seguir, referentes à reescrita e à pontuação de trechos dos textos I e II.

I. A reescrita de "Não tive filhos, não transmiti a nenhuma criatura o legado da nossa miséria" como "Não tive filhos e não transmiti a nenhuma criatura o legado da nossa miséria" mantém as duas negações expressas no original.

II. Em "Algum tempo hesitei se devia abrir estas memórias pelo princípio ou pelo fim, isto é, se poria em primeiro lugar o meu nascimento ou a minha morte", as vírgulas que delimitam "isto é" assinalam o emprego de uma expressão explicativa.

III. A substituição de "adotar" por "abandonar", em "duas considerações me levaram a adotar diferente método", preserva o sentido original do trecho.

IV. A reescrita da dedicatória como "Dedico estas memórias póstumas, como saudosa lembrança, ao verme que primeiro roeu as frias carnes do meu cadáver" preserva o destinatário da dedicatória e mantém a correção gramatical.

Estão corretas apenas as assertivas:

A) I e II.
B) I e III.
C) II, III e IV.
D) I, II e IV.

QUESTÃO 10

No que se refere à redação oficial e à comunicação administrativa, assinale a alternativa correta.

A) A formalidade exige o emprego de vocabulário rebuscado e de construções sintáticas complexas, ainda que dificultem a compreensão da mensagem.

B) A concisão autoriza a exclusão de informações necessárias à compreensão do assunto, desde que resulte em um documento mais curto.

C) A impessoalidade exige que todos os verbos sejam empregados na terceira pessoa, sendo incompatível com formas como "informo" e "solicitamos".

D) A impessoalidade exige que a comunicação trate do assunto em caráter institucional, sem impressões pessoais do redator, e não impede o emprego da primeira pessoa gramatical.

MATEMÁTICA E RACIOCÍNIO LÓGICO

QUESTÃO 11

Um reservatório tem a forma de um prisma reto, com base retangular e profundidade interna de 0,60 m. Sua base é delimitada por uma faixa de largura uniforme x, situada inteiramente dentro de um retângulo externo cujos lados estão na razão 4 : 3 e cuja diagonal mede 25 m. A figura mostra a vista superior. O reservatório, inicialmente vazio, é preenchido até sua capacidade total, em 150 minutos, por três bombas idênticas. Cada bomba tem vazão nominal de 250 L/min e opera, durante todo o enchimento, com vazão efetiva igual a 80% da nominal. Não há perdas de água.

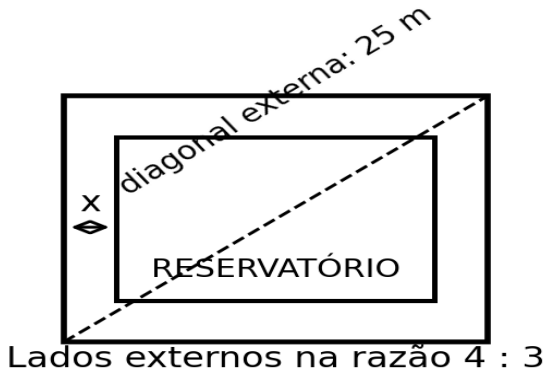

Assinale a alternativa correta para a largura x da faixa:

A) 1,25 m.
B) 5,00 m.
C) 2,50 m.
D) 7,50 m.

QUESTÃO 12

Um capital C foi aplicado à taxa de 10% ao mês, em regime de juros compostos. Ao final do segundo mês, imediatamente após o crédito dos juros desse mês, foram retirados R$ 2.100,00. O saldo restante continuou aplicado à mesma taxa, sem outras movimentações. Ao final do terceiro mês, após o crédito dos juros, o saldo era de R$ 11.000,00. A linha do tempo representa essas operações.

Julgue as assertivas como verdadeiras (V) ou falsas (F).

I. O capital inicial era de R$ 10.000,00.

II. A soma dos juros creditados nos três meses foi de R$ 3.100,00.

III. Os juros creditados no terceiro mês foram de R$ 1.210,00.

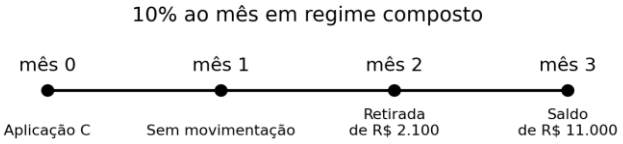

Assinale a alternativa correta quanto à sequência I, II e III:

A) V - V - F.
B) V - F - F.
C) F - V - F.
D) V - V - V.

QUESTÃO 13

Um grupo de 60 servidores foi classificado segundo a participação em duas capacitações, A e B. Os números da figura indicam as quantidades de servidores em cada região: apenas A, ambas, apenas B e nenhuma. Escolhem-se dois servidores distintos, ao acaso, de modo que todos os pares não ordenados tenham a mesma probabilidade de seleção. Considere o evento em que os dois escolhidos participaram, cada um, de pelo menos uma das capacitações e, considerando a dupla em conjunto, há pelo menos um participante de A e pelo menos um participante de B. Um mesmo servidor pode satisfazer as duas últimas exigências se tiver participado de ambas as capacitações.

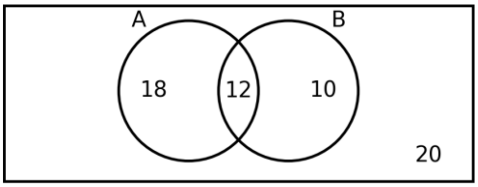

Assinale a alternativa correta para a probabilidade desse evento:

A) 26/59.
B) 97/295.
C) 47/295.
D) 29/118.

QUESTÃO 14

O gráfico representa uma função quadrática f, definida para todo x real, e informa exatamente os pontos (0, 0), (2, 12), (6, 12) e (8, 0).

Analise as assertivas:

I. O valor máximo de f é 16.

II. O conjunto dos números reais x para os quais $f(x) \geq 12$ é o intervalo fechado [2, 6].

III. Existem exatamente três números inteiros x para os quais $f(x) > 15$.

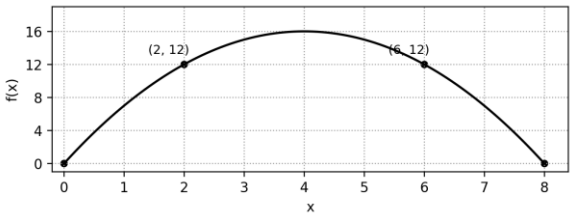

Assinale a alternativa correta:

A) Apenas I é verdadeira.

B) Apenas II e III são verdadeiras.

C) I, II e III são verdadeiras.

D) Apenas I e II são verdadeiras.

QUESTÃO 15

Cinco equipes, A, B, C, D e E, serão atendidas uma única vez, em cinco posições consecutivas. Uma ordem é admissível se, e somente se, atende simultaneamente a todas as regras abaixo.

• A é atendida antes de C.

• B é atendida imediatamente depois de D.

• E não ocupa a primeira nem a última posição.

• Exatamente uma das duas proposições seguintes é verdadeira: "C é atendida antes de D"; "E é atendida antes de C".

A figura representa as cinco posições disponíveis.

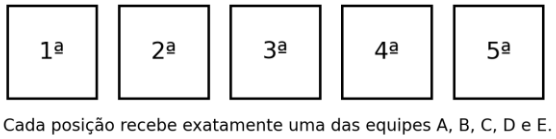

Cada posição recebe exatamente uma das equipes A, B, C, D e E.

Assinale a alternativa correta para o número de ordens admissíveis:

A) 4.

B) 6.

C) 8.

D) 5.

INFORMÁTICA

QUESTÃO 16

Um funcionário utiliza um computador com Windows 11 para elaborar documentos. Durante o trabalho, conecta um teclado novo e instala um programa de edição de textos.

Considerando os conceitos básicos de informática, assinale a alternativa correta:

A) O teclado é hardware, enquanto o editor de textos e o Windows 11 são softwares.

B) O teclado e o Windows 11 são hardwares, enquanto o editor de textos é software.

C) O teclado é software, pois envia informações ao computador, enquanto o Windows 11 é hardware.

D) O editor de textos é hardware quando instalado no computador e software quando utilizado pela internet.

QUESTÃO 17

Um servidor precisa transferir um arquivo da pasta Pendentes para a pasta Concluídos, ambas armazenadas no disco local do computador. Ele deseja que, ao final, o arquivo esteja apenas na pasta de destino.

Considerando o Explorador de Arquivos do Windows 10 e do Windows 11, assinale a alternativa correta:

A) Selecionar o arquivo, executar Copiar e, na pasta Concluídos, executar Colar**.**

B) Selecionar o arquivo, executar Renomear e substituir seu nome por Concluídos.

C) Selecionar o arquivo, executar Recortar e, na pasta Concluídos, executar Colar**.**

D) Selecionar o arquivo, executar Criar atalho e colocar o atalho na pasta Concluídos.

QUESTÃO 18

Uma equipe utiliza o Microsoft Office para elaborar relatórios, controlar despesas e apresentar resultados em reuniões.

Analise as assertivas:

I. No Word, é possível inserir uma tabela em um documento para organizar informações em linhas e colunas.

II. No Excel, a fórmula = SOMA (B2:B4) soma os valores numéricos das células B2, B3 e B4.

III. No PowerPoint, a aplicação de uma transição a um slide substitui a necessidade de salvar o arquivo da apresentação.

Assinale a alternativa correta:

A) Apenas I está correta.

B) Apenas II e III estão corretas.

C) I, II e III estão corretas.

D) Apenas I e II estão corretas.

CONHECIMENTOS ESPECÍFICOS

QUESTÃO 19

Uma funcionária recebeu um arquivo por correio eletrônico e pretende disponibilizá-lo em uma pasta compartilhada na rede local do setor.

Julgue as afirmações como verdadeiras (V) ou falsas (F).

( ) Salvar o anexo recebido permite armazenar uma cópia do arquivo em uma pasta escolhida pela funcionária.

( ) Colocar o arquivo em uma pasta compartilhada concede automaticamente permissão de edição a todos os usuários da rede, independentemente das configurações de acesso.

( ) Computadores conectados a uma rede local podem compartilhar arquivos entre si mesmo sem acesso à internet, desde que a rede e as permissões estejam configuradas para isso.

Assinale a alternativa correta, que apresenta a sequência de cima para baixo.

A) V – V – F.
B) V – F – V.
C) F – V – V.
D) V – F – F.

QUESTÃO 20

Um funcionário recebeu um e-mail que solicita sua senha e ameaça bloquear sua conta caso ele não acesse imediatamente um link. O computador utilizado possui antivírus atualizado.

Considerando essa situação e as boas práticas de segurança da informação, assinale a alternativa incorreta:

A) O antivírus atualizado torna seguro informar a senha na página indicada, pois impede que terceiros utilizem as credenciais fornecidas.

B) A urgência da mensagem e a solicitação de senha por um link são sinais que justificam suspeitar de uma tentativa de phishing.

C) A solicitação deve ser verificada por um canal institucional conhecido, sem depender do link apresentado na mensagem.

D) Manter cópias de segurança dos arquivos importantes contribui para sua recuperação em caso de perda, mas não torna seguro fornecer a senha no link recebido.

QUESTÃO 21

Uma estação total está instalada no ponto A. O alinhamento de orientação AB possui azimute de quadrícula de 70°00′00″, contado a partir do norte da quadrícula, no sentido horário.

Após visar B e ajustar a leitura horizontal para 0°00′00″, o operador gira o instrumento no sentido horário e visa P, obtendo leitura horizontal de 215°00′00″.

Considerando essa orientação, assinale a alternativa correta quanto ao azimute AP e ao rumo correspondente.

A) Azimute de 145°00′00″ e rumo S 35°00′00″ E.
B) Azimute de 215°00′00″ e rumo S 35°00′00″ W.
C) Azimute de 285°00′00″ e rumo N 15°00′00″ W.
D) Azimute de 285°00′00″ e rumo N 75°00′00″ W.

QUESTÃO 22

Um nivelamento geométrico partiu da referência de nível RN, com cota de 100,000 m. A caderneta apresenta as seguintes leituras:

Estação do Instrumento	Ponto visado	Tipo de leitura	Leitura
E1	RN	Ré	1,425 m
E1	P	Intermediária	2,100 m
E1	M	Vante de mudança	0,955 m
E2	M	Ré	1,650 m
E2	Q	Intermediária	1,300 m
E2	F	Vante final	2,220 m

O ponto M permaneceu estável durante a mudança do instrumento. Desconsidere erros instrumentais e de observação.

Assinale a alternativa correta quanto às cotas dos pontos P e F.

A) P = 99,325 m e F = 100,700 m.
B) P = 99,325 m e F = 99,900 m.
C) P = 100,675 m e F = 99,900 m.
D) P = 99,325 m e F = 96,500 m.

QUESTÃO 23

Uma gleba foi representada por um polígono simples cujos vértices, em ordem de contorno, possuem as seguintes coordenadas planas locais:

Vértice	E- metros	N – metros
A	1.000,00	2.000,00
B	1.060,00	2.000,00
C	1.060,00	2.040,00
D	1.020,00	2.060,00
E	1.000,00	2.040,00

O fechamento ocorre de E para A. Considere a área horizontal delimitada por segmentos retilíneos entre os vértices, sem correções de projeção.

Assinale a alternativa correta quanto à área da gleba.

A) 3.000,00 m², equivalentes a 0,3000 ha.
B) 2.400,00 m², equivalentes a 0,2400 ha.
C) 3.600,00 m², equivalentes a 0,3600 ha.
D) 3.000,00 m², equivalentes a 3,0000 ha.

QUESTÃO 24

No levantamento de um perfil longitudinal, foram obtidos os seguintes dados:

Distância acumulada	Cota do terreno	Cota do greide de projeto
0,00 m	102,400 m	102,000 m
40,00 m	101,200 m	102,400 m

Entre essas posições, considere variação linear tanto do terreno quanto do greide. Adote corte quando a cota do terreno for superior à do greide e aterro quando for inferior.

Assinale a alternativa correta quanto à posição de passagem de corte para aterro, medida a partir da distância acumulada zero.

A) 8,00 m.
B) 20,00 m.
C) 10,00 m.
D) 30,00 m.

QUESTÃO 25

Na locação de uma obra, utiliza-se como linha-base o alinhamento AB, orientado de A para B. As coordenadas planas locais são:

- **A: E = 500,000 m; N = 1.000,000 m.**
- **B: E = 500,000 m; N = 1.100,000 m.**
- **P: E = 512,000 m; N = 1.040,000 m.**

Pretende-se locar P pelo método de abscissas e ordenadas, medindo primeiro a distância ao longo da linha-base, a partir de A, e depois o afastamento perpendicular. Direita e esquerda são definidas para um observador voltado de A para B.

Assinale a alternativa correta:

A) Medir 12,000 m ao longo de AB e, desse ponto, 40,000 m para a direita.
B) Medir 40,000 m ao longo de AB e, desse ponto, 12,000 m para a esquerda.
C) Medir 40,000 m ao longo de AB e, desse ponto, 12,000 m para a direita.
D) Medir 41,761 m ao longo de AB e, desse ponto, 12,000 m para a direita.

QUESTÃO 26

Durante um levantamento com estação total, a altura real do instrumento era de 1,500 m, mas foi cadastrada como 1,650 m. A cota do ponto de estação e as alturas dos prismas foram informadas corretamente.

Para este problema, considere que as coordenadas horizontais são calculadas independentemente da altura cadastrada do instrumento e que a cota de cada ponto é calculada por:

Cota do ponto = cota da estação + altura do instrumento + componente vertical da distância medida − altura do prisma.

Analise as assertivas:

I. As cotas calculadas dos pontos apresentarão acréscimo de 0,150 m em relação aos valores que seriam obtidos com a altura correta.

II. A diferença de cota entre dois pontos observados dessa mesma instalação permanecerá correta nas condições estabelecidas, apesar do erro comum nas cotas individuais.

III. A concordância entre diferenças de cota de pontos observados dessa instalação demonstra que a altura do instrumento foi cadastrada corretamente.

IV. A observação de um ponto de cota conhecida, independente dos resultados produzidos pela instalação, pode contribuir para identificar a inconsistência vertical.

Assinale a alternativa correta:

A) Apenas as assertivas I e III estão corretas.
B) Apenas as assertivas II e IV estão corretas.
C) Apenas as assertivas I, II e III estão corretas.
D) Apenas as assertivas I, II e IV estão corretas.

QUESTÃO 27

Uma equipe utilizará fotografias aéreas sobrepostas para produzir informações planialtimétricas de uma área. O trabalho compreende identificação de pontos comuns às imagens, utilização de apoio de campo e restituição fotogramétrica.

Julgue as afirmações como verdadeiras (V) ou falsas (F).

( ) Pontos reconhecidos em fotografias sobrepostas contribuem para estabelecer relações geométricas entre as imagens.

( ) A existência de grande quantidade de pontos comuns às fotografias dispensa, em qualquer levantamento, a vinculação do produto ao sistema de referência exigido.

( ) A restituição fotogramétrica permite obter feições e informações geométricas a partir de

imagens orientadas, observadas as condições e limitações do levantamento.
( ) Os pontos utilizados no ajustamento e os pontos reservados para verificação independente desempenham necessariamente a mesma função no controle de qualidade.
Assinale a alternativa que apresenta a sequência correta, considerando as afirmações na ordem apresentada.
A) V – V – F – F.
B) V – F – V – F.
C) F – V – V – F.
D) V – F – F – V.

QUESTÃO 28
Em duas campanhas de levantamento topo-hidrográfico, foram obtidos dados referentes à mesma posição horizontal de um reservatório:
As cotas estão vinculadas à mesma referência vertical. As profundidades já estão corrigidas para representar a distância vertical entre a superfície da água e o fundo, sem necessidade de acrescentar a imersão do transdutor.
Considere as incertezas desprezíveis para o cálculo solicitado.
Assinale a alternativa correta:
A) A cota do fundo passou de 94,800 m para 94,700 m, correspondendo a um rebaixamento de 0,100 m.
B) A cota do fundo passou de 94,800 m para 95,100 m, correspondendo a uma elevação de 0,300 m.
C) A diminuição da profundidade de 3,400 m para 3,100 m demonstra elevação do fundo de 0,300 m, independentemente da variação do nível da água.
D) A cota do fundo permaneceu constante, pois a redução do nível da água e a redução da profundidade possuem o mesmo sentido.

QUESTÃO 29
Um perfil longitudinal foi desenhado com escala horizontal de 1:1.000 e escala vertical de 1:100, sem deformação de impressão.
Entre dois pontos do perfil, medem-se no papel 4,00 cm na direção horizontal e 2,00 cm na direção vertical, sendo o segundo ponto mais alto que o primeiro.
Analise as assertivas:
I. A distância horizontal real entre os pontos é de 40,00 m.
II. O desnível real entre os pontos é de 20,00 m.
III. A declividade real do segmento é de 5%.
IV. O exagero vertical do desenho é igual a dez.
Assinale a alternativa correta:
A) Apenas as assertivas I e II estão corretas.
B) Apenas as assertivas II e III estão corretas.
C) Apenas as assertivas I, II e IV estão corretas.
D) Apenas as assertivas I, III e IV estão corretas.

QUESTÃO 30
O planejamento de um levantamento prevê perfis paralelos em uma área retangular de 240,00 m por 120,00 m. Cada perfil terá 120,00 m de comprimento, e os perfis serão distribuídos ao longo da dimensão de 240,00 m, com espaçamento de 20,00 m, incluindo obrigatoriamente as duas linhas de borda.
Além desses perfis, será levantada uma única linha transversal de amarração, com 240,00 m. Para o orçamento, os comprimentos das linhas serão somados integralmente, sem descontos nos cruzamentos.

Campanha	Cota da superfície da água	Profundidade vertical do fundo abaixo da superfície
1	98,200 m	3,400 m
2	97,800 m	3,100 m

A equipe executa 600,00 m de linhas por dia de campo. O custo é de R$ 1.400,00 por dia completo de campo, acrescido de R$ 700,00 fixos para processamento. A produtividade já contempla os deslocamentos internos e não existem outros custos.
Assinale a alternativa correta:
A) Serão levantados 12 perfis, totalizando 1.680,00 m de linhas, com custo de R$ 4.620,00.
B) Serão levantados 13 perfis, totalizando 1.800,00 m de linhas, com custo de R$ 4.900,00.
C) Serão levantados 13 perfis, totalizando 1.560,00 m de linhas, com custo de R$ 4.340,00.
D) Serão levantados 12 perfis, totalizando 1.800,00 m de linhas, com custo de R$ 4.200,00.